Temper

मध्य प्रदेश कर्मचारी चयन मंडल
M.P. Employees Selection Board

YS

अंतिम उत्तर कुंजी

1. परीक्षा का नाम	PRT Steno LDC-2025	6. कुल विकल्प परिवर्तित प्रश्नों की संख्या	00
2. विषय प्रश्न पत्र	MAUNIT1 (SECTION A)	7. कुल निरस्त प्रश्नों की संख्या	02
3. टैम्पर प्रूफ लिफ़ाफ़ा का क्रमांक	483143	8. कुल पृष्ठों की संख्या	05
4. इस पृष्ठ पर आपत्ति युक्त प्रश्नों की संख्या	3	9. कुल आपत्ति युक्त प्रश्नों की संख्या	6 12
5. कुंजी समिति की बैठक दिनांक	5/01/2026 to 07/01/26		

(टीप: कुल निरस्त एवं कुल विकल्प परिवर्तित प्रश्नों के इंद्राज केवल प्रथम पृष्ठ पर ही अंकित किये जावें)

स. क्रं.	परीक्षा दिनांक	शिफ्ट क्रं.	एजेंसी द्वारा प्रदाय प्रश्न का यूनिक प्रश्न क्रं.	प्रश्न का संक्षिप्त विवरण	एजेंसी द्वारा प्रदाय प्रश्न का यूनिक प्रश्न क्रं. का उत्तर	विषय विशेषज्ञों का मत	संलग्न साक्ष्य
1	2025-12-17	1	106556	After arranging the given words according to English dictionary order, which word will come at "First" position? दिए गए शब्दों को अंग्रेजी शब्दकोश क्रम के अनुसार व्यवस्थित करने पर कौन सा शब्द "पहले" स्थान पर आएगा?	OptionID: 526224, Verse	No change	A1
2	2025-12-17	1	108881	Five people, Balu, Nina, Komal, Ravi and Chandu, were seated around a circular table facing inwards. Nina is seated to the immediate left of Tara. Only one person is seated between Komal and Nina. Chandu is seated to the immediate left of Balu. Who is seated third to the right of Balu? पाँच लोग — बालू, नीना, कोमल, रवि और चंदू — एक गोल टेबल के चारों ओर अंदर की ओर मुख करके बैठे हैं। नीना, तारा के बाईं ओर तीसरे है। कोमल और नीना के बीच में केवल एक व्यक्ति बैठा है। बालू, बालू के दाईं ओर कौन है?	OptionID: 535522, Komal / कोमल	No change	A2
3	2025-12-17	2	109034	Choose the address that is the same as the one given below. 2nd Floor, Lotus Arcade, Ashram Road, Ahmedabad, Gujarat - 380009 नीचे दिए गए पते के समान पता चुनें। 2nd Floor, Lotus Arcade, Ashram Road, Ahmedabad, Gujarat- 380009	OptionID: 536136, 2nd Floor, Lotus Arcade, Ashram Road, Ahmedabad Gujarat- 380009	Cancelled due to error in options. multiple correct answer found	A3

मध्य प्रदेश कर्मचारी चयन मंडल
M.P. Employees Selection Board

अंतिम उत्तर कुंजी

1. परीक्षा का नाम	PRT Steno LDC-2025	6. कुल विकल्प परिवर्तित प्रश्नों की संख्या	00
2. विषय प्रश्न पत्र	MAUNIT1 (SECTION A)	7. कुल निरस्त प्रश्नों की संख्या	02
3. टैम्पर प्रूफ लिफ़ाफ़ा का क्रमांक	483143	8. कुल पृष्ठों की संख्या	05
4. इस पृष्ठ पर आपत्ति युक्त प्रश्नों की संख्या	3	9. कुल आपत्ति युक्त प्रश्नों की संख्या	6 12
5. कुंजी समिति की बैठक दिनांक	05/01/26 to 07/01/26		

(टीप: कुल निरस्त एवं कुल विकल्प परिवर्तित प्रश्नों के इंद्राज केवल प्रथम पृष्ठ पर ही अंकित किये जावें।)

स. क्रं.	परीक्षा दिनांक	शिफ्ट क्रं.	एजेंसी द्वारा प्रदाय प्रश्न का यूनिक प्रश्न क्रं.	प्रश्न का संक्षिप्त विवरण	एजेंसी द्वारा प्रदाय प्रश्न का यूनिक प्रश्न क्रं. का उत्तर	विषय विशेषज्ञों का मत	संलग्न साक्ष्य
4	2025-12-18	1	105387	[illegible]	OptionID: 521546, Udit / उदित	Cancelled due to multi-ple answers are correct	A4
5	2025-12-18	1	105448	Which year between 2020 and 2050 will have the same calendar as the leap year 2020? 2020 और 2050 के बीच किस वर्ष का कैलेंडर अधि वर्ष 2020 के समान होगा?	OptionID: 521792, 2048	No Change	A5
6	2025-12-18	1	108826	Seven persons, A, B, C, D, E, F and G, sit in a linear row. All of them face north. B sits third to the left of F. F sits third from one of the ends. D sits adjacent to F. Only two persons sit between G and E. A sits immediate left of C. Who among the following sits fourth to the right of D? सात व्यक्ति A, B, C, D, E, F और G एक रेखी पंक्ति में बैठे हैं। सभी उत्तर मुख उत्तर की ओर है। B, F के बाईं तीसरे स्थान पर बैठा है। F किसी एक छोर से तीसरे स्थान पर बैठा है। D, F के सन्निकट बैठता है। G और E के बीच बैठता है। A, C के बाईं ओर बैठा है। निम्नलिखित में से D के दाईं ओर चौथे स्थान पर कौन बैठा है?	OptionID: 535302, C	No Change	A6

315 (3)

मध्य प्रदेश कर्मचारी चयन मंडल
M.P. Employees Selection Board

अंतिम उत्तर कुंजी

1. परीक्षा का नाम	PRT Steno LDC-2025	6. कुल विकल्प परिवर्तित प्रश्नों की संख्या	00
2. विषय प्रश्न पत्र	MAUNIT2 (SECTION A)	7. कुल निरस्त प्रश्नों की संख्या	02
3. टैम्पर प्रूफ लिफ़ाफ़ा का क्रमांक	489143	8. कुल पृष्ठों की संख्या	05
4. इस पृष्ठ पर आपत्ति युक्त प्रश्नों की संख्या	3	9. कुल आपत्ति युक्त प्रश्नों की संख्या	4 12
5. कुंजी समिति की बैठक दिनांक	05/01/26 to 07/01/26		

(टीप: कुल निरस्त एवं कुल विकल्प परिवर्तित प्रश्नों के इंद्राज केवल प्रथम पृष्ठ पर ही अंकित किये जावें।)

स. क्रं.	परीक्षा दिनांक	शिफ्ट क्रं.	एजेंसी द्वारा प्रदाय प्रश्न का यूनिक प्रश्न क्रं.	प्रश्न का संक्षिप्त विवरण	एजेंसी द्वारा प्रदाय प्रश्न का यूनिक प्रश्न क्रं. का उत्तर	विषय विशेषज्ञों का मत	संलग्न साक्ष्य
1	2025-12-17	1	106668	Which figure can be embedded inside both a cube net and tetrahedron net? कौन-सी आकृति घन और चतुष्फलक जाल दोनों में समाहित की जा सकती है?	OptionID: 526670, Triangle / त्रिभुज	No Change	A7
2	2025-12-17	2	103473	A father's age is 3 times his son's age 15 years ago, the father was 9 times as old as his son. Find the sum of their present ages. एक पिता की आयु, अपने पुत्र की आयु की 3 गुना है। 15 साल पहले, पिता की उम्र उसके पुत्र की उम्र की तुलना में 9 गुना थी। उनकी वर्तमान आयु का योग क्या होगा?	OptionID: 513890, 80 years / 80 वर्ष	No Change	A8
3	2025-12-17	2	106692	A regular pentagon is divided by all its diagonals. How many distinct embedded triangles of equal size appear? एक सम पंचभुज को उसके सभी विकर्णों द्वारा विभाजित किया जाता है। समान आकार के कितने भिन्न अंतःस्थापित त्रिभुज दिखाई देते हैं?	OptionID: 526766, 10	No Change	A9

मध्य प्रदेश कर्मचारी चयन मंडल
M.P. Employees Selection Board

4/5 (4)

अंतिम उत्तर कुंजी

1. परीक्षा का नाम	PRT Steno LDC-2025	6. कुल विकल्प परिवर्तित प्रश्नों की संख्या	00
2. विषय प्रश्न पत्र	MAUNIT2 (SECTION A)	7. कुल निरस्त प्रश्नों की संख्या	02
3. टैम्पर प्रूफ लिफ़ाफ़ा का क्रमांक	483143	8. कुल पृष्ठों की संख्या	05
4. इस पृष्ठ पर आपत्ति युक्त प्रश्नों की संख्या	1	9. कुल आपत्ति युक्त प्रश्नों की संख्या	4 12
5. कुंजी समिति की बैठक दिनांक	05/01/26 to 07/01/26		

(टीप: कुल निरस्त एवं कुल विकल्प परिवर्तित प्रश्नों के इंद्राज केवल प्रथम पृष्ठ पर ही अंकित किये जावें।)

स. क्रं.	परीक्षा दिनांक	शिफ्ट क्रं.	एजेंसी द्वारा प्रदाय प्रश्न का यूनिक प्रश्न क्रं.	प्रश्न का संक्षिप्त विवरण	एजेंसी द्वारा प्रदाय प्रश्न का यूनिक प्रश्न क्रं. का उत्तर	विषय विशेषज्ञों का मत	संलग्न साक्ष्य
4	2025-12-18	1	103641	When seen through a mirror, a clock shows 8:19hrs. The correct time is _____ जब एक दर्पण में देखा जाता है, तो घड़ी 8:19 बजे का समय दिखाती है। सही समय _____ है।	OptionID: 514561, 3:41hrs / 3:41 बजे	No change	Alo

मध्य प्रदेश कर्मचारी चयन मंडल
M.P. Employees Selection Board

5/5 (5)

अंतिम उत्तर कुंजी

1. परीक्षा का नाम	PRT Steno LDC-2025	6. कुल विकल्प परिवर्तित प्रश्नों की संख्या	00
2. विषय प्रश्न पत्र	MAUNIT3 (SECTION A)	7. कुल निरस्त प्रश्नों की संख्या	02
3. टैम्पर प्रूफ लिफ़ाफ़ा का क्रमांक	483143	8. कुल पृष्ठों की संख्या	05
4. इस पृष्ठ पर आपत्ति युक्त प्रश्नों की संख्या	2	9. कुल आपत्ति युक्त प्रश्नों की संख्या	2 12
5. कुंजी समिति की बैठक दिनांक	05/01/26 to 07/01/26		

(टीप: कुल निरस्त एवं कुल विकल्प परिवर्तित प्रश्नों के इंद्राज केवल प्रथम पृष्ठ पर ही अंकित किये जावें)

स. क्रं.	परीक्षा दिनांक	शिफ्ट क्रं.	एजेंसी द्वारा प्रदाय प्रश्न का यूनिक प्रश्न क्रं.	प्रश्न का संक्षिप्त विवरण	एजेंसी द्वारा प्रदाय प्रश्न का यूनिक प्रश्न क्रं. का उत्तर	विषय विशेषज्ञों का मत	संलग्न साक्ष्य
1	2025-12-17	2	106816	[illegible]	OptionID: 527263, Both I and II are strong. / I और II दोनों मजबूत हैं।	No change	A11
2	2025-12-18	1	103890	Four letter-clusters have been given, out of which three are alike in some manner and one is different. Select the letter- cluster that is different. चार अक्षर-समूह दिए गए हैं, जिनमें से तीन किसी न किसी प्रकार से एक जैसे हैं और एक भिन्न है। उस अक्षर-समूह का चयन करें जो अन्य से अलग है।	OptionID: 515557, WVZ	No change	A12

मध्य प्रदेश कर्मचारी चयन मंडल
M.P. Employees Selection Board

अंतिम उत्तर कुंजी

1. परीक्षा का नाम	PRT Steno LDC-2025	6. कुल विकल्प परिवर्तित प्रश्नों की संख्या	Nil
2. विषय प्रश्न पत्र	CHEMISTRY (SECTION A)	7. कुल निरस्त प्रश्नों की संख्या	02
3. टैम्पर प्रूफ तिफ़ाफ़ा का क्रमांक	483138	8. कुल पृष्ठों की संख्या	02
4. इस पृष्ठ पर आपत्ति युक्त प्रश्नों की संख्या	4	9. कुल आपत्ति युक्त प्रश्नों की संख्या	4
5. कुंजी समिति की बैठक दिनांक	5/1/26		

(टीप: कुल निरस्त एवं कुल विकल्प परिवर्तित प्रश्नों के इंद्राज केवल प्रथम पृष्ठ पर ही अंकित किये जावें|)

स. क्रं.	परीक्षा दिनांक	शिफ्ट क्रं.	एजेंसी द्वारा प्रदाय प्रश्न का यूनिक प्रश्न क्रं.	प्रश्न का संक्षिप्त विवरण	एजेंसी द्वारा प्रदाय प्रश्न का यूनिक प्रश्न क्रं. का उत्तर	विषय विशेषज्ञों का मत	संलग्न साक्ष्य
1	2025-12-17	1	101499	Which metal, when burned in air, produces a white dazzling flame? कौन-सी धातु वायु में जलने पर सफेद चमकदार लौ उत्पन्न करती है?	OptionID: 505994, Magnesium / मैग्नीशियम	No Change	1
2	2025-12-17	2	101580	Grape juice is a natural source of: अंगूर का रस प्राकृतिक रूप से किस अम्ल का स्रोत है?	OptionID: 506317, Tartaric acid / टारटारिक अम्ल	No Change	2
3	2025-12-17	2	101842	The chemical basis for meat tenderizers involves: मांस नरम करने वाले पदार्थ (मीट टेंडराइजर) का रासायनिक आधार है:	OptionID: 507366, Enzymes that cleave protein bonds / प्रोटीन बंधों को काटने वाले एंजाइम	Cancelled More than one options are correct	3

मध्य प्रदेश कर्मचारी चयन मंडल
M.P. Employees Selection Board

अंतिम उत्तर कुंजी

1. परीक्षा का नाम	PRT Steno LDC-2025	6. कुल विकल्प परिवर्तित प्रश्नों की संख्या	Nil
2. विषय प्रश्न पत्र	CHEMISTRY (SECTION A)	7. कुल निरस्त प्रश्नों की संख्या	02
3. टैम्पर प्रूफ लिफ़ाफ़ा का क्रमांक	483138	8. कुल पृष्ठों की संख्या	02
4. इस पृष्ठ पर आपत्ति युक्त प्रश्नों की संख्या	4	9. कुल आपत्ति युक्त प्रश्नों की संख्या	4
5. कुंजी समिति की बैठक दिनांक			

(टीप: कुल निरस्त एवं कुल विकल्प परिवर्तित प्रश्नों के इंद्राज केवल प्रथम पृष्ठ पर ही अंकित किये जावें।)

स. क्रं.	परीक्षा दिनांक	शिफ्ट क्रं.	एजेंसी द्वारा प्रदाय प्रश्न का यूनिक प्रश्न क्रं.	प्रश्न का संक्षिप्त विवरण	एजेंसी द्वारा प्रदाय प्रश्न का यूनिक प्रश्न क्रं. का उत्तर	विषय विशेषज्ञों का मत	संलग्न साक्ष्य
4	2025-12-18	1	101858	The white chalky residue on dark clothes after washing indicates: धुलाई के बाद गहरे रंग के कपड़ों पर सफेद चॉक जैसे अवशेष दिखाई देने का संकेत है:	OptionID: 507430, Hard water minerals precipitating / [illegible]	Cancelled More than one options are correct	04

मध्य प्रदेश कर्मचारी चयन मंडल
M.P. Employees Selection Board

अंतिम उत्तर कुंजी

1. परीक्षा का नाम	PRT Steno LDC-2025	6. कुल विकल्प परिवर्तित प्रश्नों की संख्या	Nil
2. विषय प्रश्न पत्र	PHYSICS (SECTION A)	7. कुल निरस्त प्रश्नों की संख्या	02
3. टैम्पर प्रूफ लिफ़ाफ़ा का क्रमांक	483138	8. कुल पृष्ठों की संख्या	01
4. इस पृष्ठ पर आपत्ति युक्त प्रश्नों की संख्या	2	9. कुल आपत्ति युक्त प्रश्नों की संख्या	2
5. कुंजी समिति की बैठक दिनांक	05/01/2026		

(टीप: कुल निरस्त एवं कुल विकल्प परिवर्तित प्रश्नों के इंद्राज केवल प्रथम पृष्ठ पर ही अंकित किये जावें।)

स. क्रं.	परीक्षा दिनांक	शिफ्ट क्रं.	एजेंसी द्वारा प्रदाय प्रश्न का यूनिक प्रश्न क्रं.	प्रश्न का संक्षिप्त विवरण	एजेंसी द्वारा प्रदाय प्रश्न का यूनिक प्रश्न क्रं. का उत्तर	विषय विशेषज्ञों का मत	संलग्न साक्ष्य
1	2025-12-17	1	101034	A concave mirror (f = 15 cm) and a convex lens (f = −20 cm) are placed 50 cm apart. An object is at 10 cm in front of the mirror (on mirror side). Light passes through lens then reflects from mirror and again passes lens (lens between object and mirror). Find the final image position measured from the lens. (Treat thin lens and mirror. paraxial) एक अवतल दर्पण (f = 15 सेमी) और एक उत्तल लेंस (f = −20 सेमी) को 50 सेमी की दूरी पर रखा गया है। दर्पण के सामने 10 सेमी की दूरी पर लेंस से दर्पण की ओर। प्रकाश पहले लेंस के माध्यम से गुजरता है, फिर दर्पण से परावर्तित होता है, और फिर लेंस से दोबारा गुजरता है। (लेंस वस्तु और दर्पण के बीच में है।) अंतिम प्रतिबिंब की स्थिति ज्ञात कीजिए, जिसे लेंस से मापा गया है। (पतले लेंस और दर्पण का एकाक्षीय सन्निकट)	OptionID: 504136, 11 cm to the left of lens / लेंस के बाईं ओर 11 सेमी	Cancelled, question forming is wrong	Anx –0
2	2025-12-17	1	101094	A convex mirror has a radius of curvature 60 cm. Object is placed 40 cm from the mirror. Find the image distance. एक उत्तल दर्पण की वक्रता त्रिज्या 60 सेमी है। वस्तु दर्पण से 40 सेमी की दूरी पर रखी गई है। प्रतिबिंब की दूरी ज्ञात कीजिए।	OptionID: 504374, 17 cm / 17 सेमी	Cancelled, All options are wrong	Anx –0

Temper

(9)

मध्य प्रदेश कर्मचारी चयन मंडल
M.P. Employees Selection Board

अंतिम उत्तर कुंजी

1. परीक्षा का नाम	PRT Steno LDC-2025	6. कुल विकल्प परिवर्तित प्रश्नों की संख्या	01
2. विषय प्रश्न पत्र	BIOLOGY (SECTION A)	7. कुल निरस्त प्रश्नों की संख्या	Nil
3. टैम्पर प्रूफ लिफ़ाफ़ा का क्रमांक	483138	8. कुल पृष्ठों की संख्या	04
4. इस पृष्ठ पर आपत्ति युक्त प्रश्नों की संख्या	3	9. कुल आपत्ति युक्त प्रश्नों की संख्या	11
5. कुंजी समिति की बैठक दिनांक	05-06.01.26		

(टीप: कुल निरस्त एवं कुल विकल्प परिवर्तित प्रश्नों के इंद्राज केवल प्रथम पृष्ठ पर ही अंकित किये जावें)

स. क्रं.	परीक्षा दिनांक	शिफ्ट क्रं.	एजेंसी द्वारा प्रदाय प्रश्न का यूनिक प्रश्न क्रं.	प्रश्न का संक्षिप्त विवरण	एजेंसी द्वारा प्रदाय प्रश्न का यूनिक प्रश्न क्रं. का उत्तर	विषय विशेषज्ञों का मत	संलग्न साक्ष्य
1	2025-12-17	1	102081	Which of the following is a characteristic of vegetative propagation? निम्नलिखित में से कौन-सी वानस्पतिक प्रवर्धन की विशेषता है?	OptionID: 508323, Produces clones of the parent / मूल पौधे के समान अनेक पौधों का उत्पादन करता है	No Change	01
2	2025-12-17	1	102393	Who among the following started the domestication of animals? निम्नलिखित में से किसने पशुओं को पालना शुरू किया?	OptionID: 509571, Cro-Magnon man / क्रो-मैग्नन मानव	No Change	02
3	2025-12-17	1	102400	Which among the following groups contain only biodegradable items? निम्नलिखित में से कौन-सा समूह केवल जैव निम्नीकरणीय वस्तुओं को शामिल करता है?	OptionID: 509597, Grass, wood and cardboard / घास, लकड़ी और कार्डबोर्ड	No Change	03

मध्य प्रदेश कर्मचारी चयन मंडल
M.P. Employees Selection Board

अंतिम उत्तर कुंजी

1. परीक्षा का नाम	PRT Steno LDC-2025	6. कुल विकल्प परिवर्तित प्रश्नों की संख्या	01
2. विषय प्रश्न पत्र	BIOLOGY (SECTION A)	7. कुल निरस्त प्रश्नों की संख्या	Nil
3. टैम्पर प्रूफ लिफ़ाफ़ा का क्रमांक	483138	8. कुल पृष्ठों की संख्या	04
4. इस पृष्ठ पर आपत्ति युक्त प्रश्नों की संख्या	3	9. कुल आपत्ति युक्त प्रश्नों की संख्या	11
5. कुंजी समिति की बैठक दिनांक	- 05-06.01.26		

(टीप: कुल निरस्त एवं कुल विकल्प परिवर्तित प्रश्नों के इंद्राज केवल प्रथम पृष्ठ पर ही अंकित किये जावें।)

स. क्रं.	परीक्षा दिनांक	शिफ्ट क्रं.	एजेंसी द्वारा प्रदाय प्रश्न का यूनिक प्रश्न क्रं.	प्रश्न का संक्षिप्त विवरण	एजेंसी द्वारा प्रदाय प्रश्न का यूनिक प्रश्न क्रं. का उत्तर	विषय विशेषज्ञों का मत	संलग्न साक्ष्य
4	2025-12-17	2	102155	Which of the following is possible for a female human cell after the mitotic cell division? समसूत्री (माइटोटिक) कोशिका विभाजन के बाद मादा मानव कोशिका के लिए निम्नलिखित में से क्या संभव है?	OptionID: 508619, 44 + XX	No Change	04
5	2025-12-17	2	102236	Which one is the site of pairing of homologous chromosome? समजातीय गुणसूत्रों के युग्मन का स्थल कौन-सा है?	OptionID: 508944, Zygotene / ज़ाइगोटीन	No Change	05
6	2025-12-17	2	102278	The air we inhale is filtered by: हम जो हवा अंदर लेते हैं वह निम्न द्वारा फ़िल्टर होती है:	OptionID: 509111,	No Change	06

मध्य प्रदेश कर्मचारी चयन मंडल
M.P. Employees Selection Board

अंतिम उत्तर कुंजी

1. परीक्षा का नाम	PRT Steno LDC-2025	6. कुल विकल्प परिवर्तित प्रश्नों की संख्या	01
2. विषय प्रश्न पत्र	BIOLOGY (SECTION A)	7. कुल निरस्त प्रश्नों की संख्या	Nil
3. टैम्पर प्रूफ लिफ़ाफ़ा का क्रमांक	483138	8. कुल पृष्ठों की संख्या	04
4. इस पृष्ठ पर आपत्ति युक्त प्रश्नों की संख्या	3	9. कुल आपत्ति युक्त प्रश्नों की संख्या	11
5. कुंजी समिति की बैठक दिनांक	05-06.01.26		

(टीप: कुल निरस्त एवं कुल विकल्प परिवर्तित प्रश्नों के इंद्राज केवल प्रथम पृष्ठ पर ही अंकित किये जावें।)

स. क्रं.	परीक्षा दिनांक	शिफ्ट क्रं.	एजेंसी द्वारा प्रदाय प्रश्न का यूनिक प्रश्न क्रं.	प्रश्न का संक्षिप्त विवरण	एजेंसी द्वारा प्रदाय प्रश्न का यूनिक प्रश्न क्रं. का उत्तर	विषय विशेषज्ञों का मत	संलग्न साक्ष्य
7	2025-12-17	2	102296	A cross between pea plant with white flowers (ww) and pea plant with violet flowers (VV) resulted in F_2 progeny. What will be the ratio of violet (VV) and white (vv) flowers in F_2 progeny? सफेद फूलों वाले मटर के पौधे (ww) और बैंगनी फूलों वाले मटर के पौधे (VV) के बीच क्रॉस के परिणामस्वरूप F_2 संतति प्राप्त हुई। F_2 संतति में बैंगनी (VV) और सफेद (ww) फूलों का अनुपात क्या होगा?	OptionID: 509183, 3:1	Option change ID- 509183 → 509181 ✓ Correct ID - 509181 Ans- 1:1	07
8	2025-12-17	2	102342	Apart from storage, how else do plants excrete waste substances? संग्रहण के अलावा, पौधे अपशिष्ट पदार्थों को और किस प्रकार उत्सर्जित करते हैं?	OptionID: 509367,	No change	08
9	2025-12-18	1	102016	Which part of the neuron is primarily responsible for summation of incoming signals before impulse generation? न्यूरॉन का कौन-सा भाग मुख्य रूप से आवेग उत्पन्न होने से पहले आने वाले संकेतों के योग के लिए जिम्मेदार होता है?	OptionID: 508063, Cell body (soma) / सेल बॉडी (सोमा)	No change	09

मध्य प्रदेश कर्मचारी चयन मंडल
M.P. Employees Selection Board

अंतिम उत्तर कुंजी

1. परीक्षा का नाम	PRT Steno LDC-2025	6. कुल विकल्प परिवर्तित प्रश्नों की संख्या	01
2. विषय प्रश्न पत्र	BIOLOGY (SECTION A)	7. कुल निरस्त प्रश्नों की संख्या	Nil
3. टैम्पर प्रूफ लिफ़ाफ़ा का क्रमांक	A83138	8. कुल पृष्ठों की संख्या	04
4. इस पृष्ठ पर आपत्ति युक्त प्रश्नों की संख्या	2	9. कुल आपत्ति युक्त प्रश्नों की संख्या	11
5. कुंजी समिति की बैठक दिनांक	05-06-01-26.		

(टीप: कुल निरस्त एवं कुल विकल्प परिवर्तित प्रश्नों के इंद्राज केवल प्रथम पृष्ठ पर ही अंकित किये जावें)

स. क्रं.	परीक्षा दिनांक	शिफ्ट क्रं.	एजेंसी द्वारा प्रदाय प्रश्न का यूनिक प्रश्न क्रं.	प्रश्न का संक्षिप्त विवरण	एजेंसी द्वारा प्रदाय प्रश्न का यूनिक प्रश्न क्रं. का उत्तर	विषय विशेषज्ञों का मत	संलग्न साक्ष्य
10	2025-12-18	1	102148	Which device changes hormonal balance to prevent egg release? कौन-सा उपकरण हार्मोन संतुलन को बदलकर अंडाणु के निकलने को रोकता है?	OptionID: 508590, Oral contraceptive pills / मौखिक गर्भनिरोधक गोलियाँ	No change	10
11	2025-12-18	1	102340	Where are waste products like resins and gums primarily stored in plants? पौधों में रेज़िन और गोंद जैसे अपशिष्ट पदार्थ मुख्य रूप से कहाँ संग्रहित होते हैं?	OptionID: 509359, Old xylem / पुराना ज़ाइलेम	No change.	11

Temper 1/9 (13)

मध्य प्रदेश कर्मचारी चयन मंडल
M.P. Employees Selection Board

अंतिम उत्तर कुंजी

परीक्षा का नाम	PRT Steno LDC-2025	6. कुल विकल्प परिवर्तित प्रश्नों की संख्या	01
विषय प्रश्न पत्र	LRUNIT1 (SECTION A)	7. कुल निरस्त प्रश्नों की संख्या	01
टैम्पर प्रूफ लिफ़ाफ़ा का क्रमांक	483141	8. कुल पृष्ठों की संख्या	09
इस पृष्ठ पर आपत्ति युक्त प्रश्नों की संख्या	- 25	9. कुल आपत्ति युक्त प्रश्नों की संख्या	- 25
कुंजी समिति की बैठक दिनांक	5,6/01/2026 07/01/26		

(टीप: कुल निरस्त एवं कुल विकल्प परिवर्तित प्रश्नों के इंद्राज केवल प्रथम पृष्ठ पर ही अंकित किये जावें।)

	परीक्षा दिनांक	शिफ्ट क्रं.	एजेंसी द्वारा प्रदाय प्रश्न का यूनिक प्रश्न क्रं.	प्रश्न का संक्षिप्त विवरण	एजेंसी द्वारा प्रदाय प्रश्न का यूनिक प्रश्न क्रं. का उत्तर	विषय विशेषज्ञों का मत	संलग्न साक्ष्य
1	2025-12-17	2	109186		OptionID: 536741, 7	No change	L-1
2	2025-12-18	1	104203	Complete the analogy. Inertia : Motion :: Insulation : ? सादृश्य (एनालॉजी) पूरा करें। जड़ता : गति :: इन्सुलेशन : ?	OptionID: 516809, Heat / गर्मी	No change	L-2
3	2025-12-18	1	109124		OptionID: 536493, A	No change	L-3

२/9

14

मध्य प्रदेश कर्मचारी चयन मंडल
M.P. Employees Selection Board

अंतिम उत्तर कुंजी

परीक्षा का नाम	PRT Steno LDC-2025	6. कुल विकल्प परिवर्तित प्रश्नों की संख्या	01
विषय प्रश्न पत्र	LRUNIT2 (SECTION A)	7. कुल निरस्त प्रश्नों की संख्या	01
टेम्पर प्रूफ लिफ़ाफ़ा का क्रमांक	483141	8. कुल पृष्ठों की संख्या	09
इस पृष्ठ पर आपत्ति युक्त प्रश्नों की संख्या	3	9. कुल आपत्ति युक्त प्रश्नों की संख्या	25
कुंजी समिति की बैठक दिनांक	5, 6/01/26 07/01/26		

(टीप: कुल निरस्त एवं कुल विकल्प परिवर्तित प्रश्नों के इंद्राज केवल प्रथम पृष्ठ पर ही अंकित किये जावें।)

परीक्षा दिनांक	शिफ्ट क्रं.	एजेंसी द्वारा प्रदाय प्रश्न का यूनिक प्रश्न क्रं.	प्रश्न का संक्षिप्त विवरण	एजेंसी द्वारा प्रदाय प्रश्न का यूनिक प्रश्न क्रं. का उत्तर	विषय विशेषज्ञों का मत	संलग्न साक्ष्य
2025-12-17	1	104348	Pointing to a woman, Madan said, "Her son is my father's only grandson". How is the woman related to Madan? एक महिला की ओर इशारा करते हुए मदन ने कहा: "उसका बेटा मेरे पिता का इकलौता पोता है।" महिला का मदन से क्या संबंध है?	OptionID: 517391, Wife of Madan / मदन की पत्नी	No change	L-4
2025-12-17	1	104352	Four people, A-D, live on floors 1-4. B is on 3, A is on 1; D lives lower than B but NOT on floor 1. Who lives on floor 4? चार लोग A से D तक पहली से चौथी मंजिल पर रहते हैं। B तीसरी मंजिल पर है; A पहली मंजिल पर है; D, B से नीचे रहता है लेकिन पहली मंजिल पर नहीं है। चौथी मंजिल पर कौन रहता है?	OptionID: 517405, C	No change	L-5
2025-12-17	1	108074	If a non-leap year starts on a Monday, what day of the week will the same year end on? यदि एक सामान्य वर्ष सोमवार से शुरू होता है, तो वही वर्ष किस सप्ताह के दिन समाप्त होगा?	OptionID: 532294, Tuesday / मंगलवार	option change Corret option ID is 532293 (Monday) सोमवार	L-6

1. अभ्यर्थियों से प्राप्त अभ्यावेदन पर विषय विशेषज्ञों द्वारा उत्तरों में परिवर्तन या निरस्त किये गये प्रश्नों पर अपना मत, प्रविष्टि साक्ष्य अनिवार्य रूप से संलग्न की जाना है।

3/9

15

मध्य प्रदेश कर्मचारी चयन मंडल
M.P. Employees Selection Board

अंतिम उत्तर कुंजी

परीक्षा का नाम	PRT Steno LDC-2025	6. कुल विकल्प परिवर्तित प्रश्नों की संख्या	
विषय प्रश्न पत्र	LRUNIT2 (SECTION A)	7. कुल निरस्त प्रश्नों की संख्या	
टैम्पर प्रूफ लिफ़ाफ़ा का क्रमांक		8. कुल पृष्ठों की संख्या	
इस पृष्ठ पर आपत्ति युक्त प्रश्नों की संख्या	3	9. कुल आपत्ति युक्त प्रश्नों की संख्या	9
कुंजी समिति की बैठक दिनांक			

(टीप: कुल निरस्त एवं कुल विकल्प परिवर्तित प्रश्नों के इंद्राज केवल प्रथम पृष्ठ पर ही अंकित किये जावें।)

क्र.	परीक्षा दिनांक	शिफ्ट क्रं.	एजेंसी द्वारा प्रदाय प्रश्न का यूनिक प्रश्न क्रं.	प्रश्न का संक्षिप्त विवरण	एजेंसी द्वारा प्रदाय प्रश्न का यूनिक प्रश्न क्रं. का उत्तर	विषय विशेषज्ञों का मत	संलग्न साक्ष्य
4	2025-12-17	1	108158	Which letter's value is NOT CORRECT किस अक्षर का मान सही नहीं है? M N P T 2 4 8 16	OptionID: 532632, 18	No change	L-7
5	2025-12-17	2	109207		OptionID: 536825, 62	No change	L-8
6	2025-12-17	2	109260		OptionID: 537040, 4	No change	L-9

4/9

16

मध्य प्रदेश कर्मचारी चयन मंडल
M.P. Employees Selection Board

अंतिम उत्तर कुंजी

परीक्षा का नाम	PRT Steno LDC-2025	6. कुल विकल्प परिवर्तित प्रश्नों की संख्या	
विषय प्रश्न पत्र	LRUNIT2 (SECTION A)	7. कुल निरस्त प्रश्नों की संख्या	
टैम्पर प्रूफ लिफ़ाफ़ा का क्रमांक		8. कुल पृष्ठों की संख्या	
इस पृष्ठ पर आपत्ति युक्त प्रश्नों की संख्या	3	9. कुल आपत्ति युक्त प्रश्नों की संख्या	9
कुंजी समिति की बैठक दिनांक			

(टीप: कुल निरस्त एवं कुल विकल्प परिवर्तित प्रश्नों के इंद्राज केवल प्रथम पृष्ठ पर ही अंकित किये जावें)

अ.क्र.	परीक्षा दिनांक	शिफ्ट क्रं.	एजेंसी द्वारा प्रदाय प्रश्न का यूनिक प्रश्न क्रं.	प्रश्न का संक्षिप्त विवरण	एजेंसी द्वारा प्रदाय प्रश्न का यूनिक प्रश्न क्रं. का उत्तर	विषय विशेषज्ञों का मत	संलग्न साक्ष्य
7	2025-12-18	1	104316	A and B are sisters. C is the daughter of B. How is A related to C? A और B बहनें हैं। C, B की बेटी है। A, C से किस प्रकार संबंधित है?	OptionID: 517262, Aunt / आंटी	No change	L-1
8	2025-12-18	1	108134	A person walks 4 km West, then 3 km North, and finally 4 km East. In which direction is he from his starting point? एक व्यक्ति 4 किलोमीटर पश्चिम दिशा में चलता है, फिर 3 किलोमीटर उत्तर दिशा में और अंत में 4 किलोमीटर पूर्व दिशा में चलता है। अब वह अपने प्रारंभिक बिंदु से किस दिशा में है?	OptionID: 532533, North / उत्तर	No change	L-1
9	2025-12-18	1	108171	Two cars start from the same point. Car A travels 12 km North, then turns West and travels 5 km. Car B travels 5 km East, then turns North and travels 12 km. What is the shortest distance between the final positions of Car A and Car B? दो कारें एक ही स्थान से शुरुआत होती हैं। कार A 12 किलोमीटर उत्तर दिशा में जाती है, फिर पश्चिम दिशा में मुड़कर 5 किलोमीटर चलती है। कार B 5 किलोमीटर पूर्व दिशा में जाती है, फिर उत्तर दिशा में मुड़कर 12 किलोमीटर चलती है। कार A और कार B के अंतिम स्थानों के बीच की सबसे छोटी दूरी क्या है?	OptionID: 532684, 10 km / 10 किमी	No change	L-1

10. अभ्यर्थियों से प्राप्त अभ्यावेदन पर विषय विशेषज्ञों [illegible]

मध्य प्रदेश कर्मचारी चयन मंडल
M.P. Employees Selection Board

5/9
17

अंतिम उत्तर कुंजी

1. परीक्षा का नाम	PRT Steno LDC-2025	6. कुल विकल्प परिवर्तित प्रश्नों की संख्या	
2. विषय प्रश्न पत्र	LRUNIT3 (SECTION A)	7. कुल निरस्त प्रश्नों की संख्या	
3. टैम्पर प्रूफ लिफ़ाफ़ा का क्रमांक		8. कुल पृष्ठों की संख्या	
4. इस पृष्ठ पर आपत्ति युक्त प्रश्नों की संख्या	3	9. कुल आपत्ति युक्त प्रश्नों की संख्या	6
5. कुंजी समिति की बैठक दिनांक			

(टीप: कुल निरस्त एवं कुल विकल्प परिवर्तित प्रश्नों के इंद्राज केवल प्रथम पृष्ठ पर ही अंकित किये जावें)

स. क्रं.	परीक्षा दिनांक	शिफ्ट क्रं.	एजेंसी द्वारा प्रदाय प्रश्न का यूनिक प्रश्न क्रं.	प्रश्न का संक्षिप्त विवरण	एजेंसी द्वारा प्रदाय प्रश्न का यूनिक प्रश्न क्रं. का उत्तर	विषय विशेषज्ञों का मत	संलग्न साक्ष्य
1	2025-12-17	1	108469	Choose the CORRECT options from the below. Python, Ruby, Rust, Linux नीचे दिए गए विकल्पों में से सही विकल्प चुनिए। पाइथन, रूबी, रस्ट, लिनक्स	OptionID: 533876, Linux / लिनक्स	Question is Cancelled due to wrong structure	L-13
2	2025-12-17	1	108482	**Directions:** Select the related word from the given alternatives Ant : Colony :: Lawyer : ? **निर्देश:** दिए गए विकल्पों में से संबंधित शब्द चुनें। चींटी : कालोनी :: वकील : ?	OptionID: 533926, Firm / फर्म	NO change	L-14
3	2025-12-17	1	109319	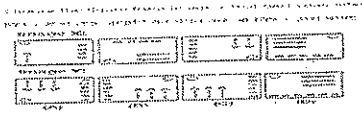	OptionID: 537275, C	NO change	L-15

(6/9)

(18)

मध्य प्रदेश कर्मचारी चयन मंडल
M.P. Employees Selection Board

अंतिम उत्तर कुंजी

1. परीक्षा का नाम	PRT Steno LDC-2025	6. कुल विकल्प परिवर्तित प्रश्नों की संख्या	
2. विषय प्रश्न पत्र	LRUNIT3 (SECTION A)	7. कुल निरस्त प्रश्नों की संख्या	
3. टैम्पर प्रूफ लिफ़ाफ़ा का क्रमांक		8. कुल पृष्ठों की संख्या	
4. इस पृष्ठ पर आपत्ति युक्त प्रश्नों की संख्या	3	9. कुल आपत्ति युक्त प्रश्नों की संख्या	6
5. कुंजी समिति की बैठक दिनांक			

(टीप: कुल निरस्त एवं कुल विकल्प परिवर्तित प्रश्नों के इंद्राज केवल प्रथम पृष्ठ पर ही अंकित किये जावें।)

स. क्रं.	परीक्षा दिनांक	शिफ्ट क्रं.	एजेंसी द्वारा प्रदाय प्रश्न का यूनिक प्रश्न क्रं.	प्रश्न का संक्षिप्त विवरण	एजेंसी द्वारा प्रदाय प्रश्न का यूनिक प्रश्न क्रं. का उत्तर	विषय विशेषज्ञों का मत	संलग्न साक्ष्य
4	2025-12-17	2	109346	In the given image, count the number of squares and choose the CORRECT answer from the following options. दिए गए चित्र में वर्गों की संख्या गिनें और निम्नलिखित विकल्पों में से सही उत्तर चुनें। 	OptionID: 537381, 22	No change	L-16
5	2025-12-18	1	108415	If 'ACE' is coded as 'BDG', how is 'DFH' coded? यदि 'ACE' को 'BDG' के रूप में कोडित किया गया है, तो 'DFH' को कैसे कोडित किया जाएगा?	OptionID: 533658, EGJ	No change	L-17
6	2025-12-18	1	108442	In the following options, three pairs show a relationship between a geometric shape and one of its defining parts. Identify the ODD one out. निम्नलिखित विकल्पों में से तीन युग्म (जोड़े) किसी ज्यामितीय आकृति और उसकी एक परिभाषित विशेषता के बीच संबंध दर्शाते हैं। उस युग्म की पहचानिए जो अन्य तीन से भिन्न है।	OptionID: 533768, Rectangle- Side / आयत – भुजा	No change	L-18

7/9

19

मध्य प्रदेश कर्मचारी चयन मंडल
M.P. Employees Selection Board

अंतिम उत्तर कुंजी

1. परीक्षा का नाम	PRT Steno LDC-2025	6. कुल विकल्प परिवर्तित प्रश्नों की संख्या	
2. विषय प्रश्न पत्र	LRUNIT4 (SECTION A)	7. कुल निरस्त प्रश्नों की संख्या	
3. टैम्पर प्रूफ लिफ़ाफ़ा का क्रमांक		8. कुल पृष्ठों की संख्या	
4. इस पृष्ठ पर आपत्ति युक्त प्रश्नों की संख्या	3	9. कुल आपत्ति युक्त प्रश्नों की संख्या	7
5. कुंजी समिति की बैठक दिनांक			

(टीप: कुल निरस्त एवं कुल विकल्प परिवर्तित प्रश्नों के इंद्राज केवल प्रथम पृष्ठ पर ही अंकित किये जावें।)

स. क्रं.	परीक्षा दिनांक	शिफ्ट क्रं.	एजेंसी द्वारा प्रदाय प्रश्न का यूनिक प्रश्न क्रं.	प्रश्न का संक्षिप्त विवरण	एजेंसी द्वारा प्रदाय प्रश्न का यूनिक प्रश्न क्रं. का उत्तर	विषय विशेषज्ञों का मत	संलग्न साक्ष्य
1	2025-12-17	1	104583	A is 7th from left, B is 5th from right, a total of 15 students. Who is nearer the middle? A बाईं ओर से 7वें स्थान पर है, और B दाईं ओर से 5वें स्थान पर है। कुल 15 छात्र हैं। तो कौन मध्य के अधिक निकट है?	OptionID: 518329, A	No change	L-1
2	2025-12-17	1	108523	A school has more boys than girls, but the number of teachers teaching boys is fewer. What can be inferred? एक स्कूल में लड़कों की संख्या लड़कियों से अधिक है। लेकिन लड़कों को पढ़ाने वाले शिक्षकों की संख्या कम है। इससे क्या निष्कर्ष निकाला जा सकता है?	OptionID: 534089, Boys get less attention / लड़कों को कम ध्यान मिलता है।	No change	L-2
3	2025-12-17	1	109480	Identify the image that does NOT belong to the group. उस चित्र की पहचान करें जो समूह से संबंधित नहीं है। 	OptionID: 537917, a	No change	L-3

नोट: अभ्यर्थियों से प्राप्त अभ्यावेदन पर विषय विशेषज्ञों द्वारा उपरोक्त में परिवर्तित या विलोपित किये गये प्रश्नों के अलावा शेष प्रश्नों पर अभिमत यथावत रखा गया है।

(8/9)

(20)

मध्य प्रदेश कर्मचारी चयन मंडल
M.P. Employees Selection Board

अंतिम उत्तर कुंजी

1. परीक्षा का नाम	PRT Steno LDC-2025	6. कुल विकल्प परिवर्तित प्रश्नों की संख्या	
2. विषय प्रश्न पत्र	LRUNIT4 (SECTION A)	7. कुल निरस्त प्रश्नों की संख्या	
3. टैम्पर प्रूफ लिफ़ाफ़ा का क्रमांक		8. कुल पृष्ठों की संख्या	
4. इस पृष्ठ पर आपत्ति युक्त प्रश्नों की संख्या	3	9. कुल आपत्ति युक्त प्रश्नों की संख्या	7
5. कुंजी समिति की बैठक दिनांक			

(टीप: कुल निरस्त एवं कुल विकल्प परिवर्तित प्रश्नों के इंद्राज केवल प्रथम पृष्ठ पर ही अंकित किये जावें।)

स. क्रं.	परीक्षा दिनांक	शिफ्ट क्रं.	एजेंसी द्वारा प्रदाय प्रश्न का यूनिक प्रश्न क्रं.	प्रश्न का संक्षिप्त विवरण	एजेंसी द्वारा प्रदाय प्रश्न का यूनिक प्रश्न क्रं. का उत्तर	विषय विशेषज्ञों का मत	संलग्न साक्ष्य
4	2025-12-17	2	109390	[illegible]	OptionID: 537559, P	No change	L-2
5	2025-12-17	2	109467	Identify the image that does NOT belong to the group. [illegible]	OptionID: 537866, H	No change	L-2
6	2025-12-18	1	108569	Arrange the following sentences to form a coherent paragraph: (P) The little bird chirped happily. (Q) A small bird sat on the branch of a tree. (R) It was a sunny morning. (S) The tree was in a garden. [illegible]	OptionID: 534274, RQSP	No change	L-2

(9/9)

(21)

मध्य प्रदेश कर्मचारी चयन मंडल
M.P. Employees Selection Board

अंतिम उत्तर कुंजी

1. परीक्षा का नाम	PRT Steno LDC-2025	6. कुल विकल्प परिवर्तित प्रश्नों की संख्या	
2. विषय प्रश्न पत्र	LRUNIT4 (SECTION A)	7. कुल निरस्त प्रश्नों की संख्या	
3. टैम्पर प्रूफ लिफ़ाफ़ा का क्रमांक		8. कुल पृष्ठों की संख्या	
4. इस पृष्ठ पर आपत्ति युक्त प्रश्नों की संख्या	1	9. कुल आपत्ति युक्त प्रश्नों की संख्या	7
5. कुंजी समिति की बैठक दिनांक			

(टीप: कुल निरस्त एवं कुल विकल्प परिवर्तित प्रश्नों के इंद्राज केवल प्रथम पृष्ठ पर ही अंकित किये जावें।)

स. क्रं.	परीक्षा दिनांक	शिफ्ट क्रं.	एजेंसी द्वारा प्रदाय प्रश्न का यूनिक प्रश्न क्रं.	प्रश्न का संक्षिप्त विवरण	एजेंसी द्वारा प्रदाय प्रश्न का यूनिक प्रश्न क्रं. का उत्तर	विषय विशेषज्ञों का मत	संलग्न साक्ष्य
7	2025-12-18	1	108591	Find out the answer figure in which the given question figures is embedded. दी गई प्रश्न आकृति किस उत्तर आकृति में समाहित है, वह पता लगाएँ। 	OptionID: 534363. 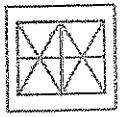	No Change	L-1

टीप: अभ्यर्थियों से प्राप्त अभ्यावेदन पर विषय विशेषज्ञों द्वारा उनके [illegible]

Tempen '16

(22)

मध्य प्रदेश कर्मचारी चयन मंडल
M.P. Employees Selection Board

अंतिम उत्तर कुंजी

1. परीक्षा का नाम	PRT Steno LDC-2025	6. कुल विकल्प परिवर्तित प्रश्नों की संख्या	Nil
2. विषय प्रश्न पत्र	GKINDIA (SECTION A)	7. कुल निरस्त प्रश्नों की संख्या	4
3. टैम्पर प्रूफ लिफ़ाफ़ा का क्रमांक	483139	8. कुल पृष्ठों की संख्या	6
4. इस पृष्ठ पर आपत्ति युक्त प्रश्नों की संख्या	3	9. कुल आपत्ति युक्त प्रश्नों की संख्या	~~10~~ 16
5. कुंजी समिति की बैठक दिनांक	5/1/26 & 6/1/26 & 7/1/26		

(टीप: कुल निरस्त एवं कुल विकल्प परिवर्तित प्रश्नों के इंद्राज केवल प्रथम पृष्ठ पर ही अंकित किये जावें।)

स. क्रं.	परीक्षा दिनांक	शिफ्ट क्रं.	एजेंसी द्वारा प्रदाय प्रश्न का यूनिक प्रश्न क्रं.	प्रश्न का संक्षिप्त विवरण	एजेंसी द्वारा प्रदाय प्रश्न का यूनिक प्रश्न क्रं. का उत्तर	विषय विशेषज्ञों का मत	संलग्न साक्ष्य
1	2025-12-17	1	100480	Which Afghan dynasty was the first dynasty to rule the Delhi Sultanate during the medieval period? मध्यकालीन काल में दिल्ली सल्तनत पर शासन करने वाला पहला अफगान वंश कौन-सा था?	OptionID: 501919, Lodhi / लोदी वंश	No change	1
2	2025-12-17	1	105799	Which Indian river originates from the Western Ghats? भारत की कौन-सी नदी पश्चिमी घाट से निकलती है?	OptionID: 523196, Periyar / पेरियार	More than one option is correct Cancelled	2
3	2025-12-17	1	105890	Which site shows the earliest evidence of farming in India? भारत में कृषि के सबसे प्रारंभिक प्रमाण किस स्थल पर मिले हैं?	OptionID: 523557, Mehrgarh / मेहरगढ़	No change	3

मध्य प्रदेश कर्मचारी चयन मंडल
M.P. Employees Selection Board

अंतिम उत्तर कुंजी

1. परीक्षा का नाम	PRT Steno LDC-2025	6. कुल विकल्प परिवर्तित प्रश्नों की संख्या	Nil
2. विषय प्रश्न पत्र	GKINDIA (SECTION A)	7. कुल निरस्त प्रश्नों की संख्या	4
3. टैम्पर प्रूफ लिफ़ाफ़ा का क्रमांक	483139	8. कुल पृष्ठों की संख्या	6
4. इस पृष्ठ पर आपत्ति युक्त प्रश्नों की संख्या	3	9. कुल आपत्ति युक्त प्रश्नों की संख्या	16
5. कुंजी समिति की बैठक दिनांक	5/1/26 & 6/1/26 & 7/1/26		

(टीप: कुल निरस्त एवं कुल विकल्प परिवर्तित प्रश्नों के इंद्राज केवल प्रथम पृष्ठ पर ही अंकित किये जावें।)

स. क्रं.	परीक्षा दिनांक	शिफ्ट क्रं.	एजेंसी द्वारा प्रदाय प्रश्न का यूनिक प्रश्न क्रं.	प्रश्न का संक्षिप्त विवरण	एजेंसी द्वारा प्रदाय प्रश्न का यूनिक प्रश्न क्रं. का उत्तर	विषय विशेषज्ञों का मत	संलग्न साक्ष्य
4	2025-12-17	1	105891	The development of pottery is linked to which period? मिट्टी के बर्तनों का विकास किस काल से जुड़ा हुआ है?	OptionID: 523563, Neolithic / नवपाषाण काल	No change	4
5	2025-12-17	1	105930	What is the term for a shot that hits the rim and then goes into the basket in basketball? बास्केटबॉल में उस शॉट को क्या कहा जाता है जो रिम से टकराकर फिर बास्केट में चला जाता है?	OptionID: 523719, A Rimmer / रिमर	Cancelled No option is correct	5
6	2025-12-17	1	106064	Giddha performances are often characterized by: गिद्दा प्रस्तुतियाँ प्रायः आमतौर पर निम्नलिखित होती हैं:	OptionID: 524254,	No change	6

3/6

(24)

मध्य प्रदेश कर्मचारी चयन मंडल
M.P. Employees Selection Board

अंतिम उत्तर कुंजी

1. परीक्षा का नाम	PRT Steno LDC-2025	6. कुल विकल्प परिवर्तित प्रश्नों की संख्या	Nil
2. विषय प्रश्न पत्र	GKINDIA (SECTION A)	7. कुल निरस्त प्रश्नों की संख्या	4
3. टैम्पर प्रूफ लिफ़ाफ़ा का क्रमांक	483139	8. कुल पृष्ठों की संख्या	6
4. इस पृष्ठ पर आपत्ति युक्त प्रश्नों की संख्या	3	9. कुल आपत्ति युक्त प्रश्नों की संख्या	16
5. कुंजी समिति की बैठक दिनांक	5/1/26 & 6/1/26 & 7/1/26		

(टीप: कुल निरस्त एवं कुल विकल्प परिवर्तित प्रश्नों के इंद्राज केवल प्रथम पृष्ठ पर ही अंकित किये जावें|)

स. क्रं.	परीक्षा दिनांक	शिफ्ट क्रं.	एजेंसी द्वारा प्रदाय प्रश्न का यूनिक प्रश्न क्रं.	प्रश्न का संक्षिप्त विवरण	एजेंसी द्वारा प्रदाय प्रश्न का यूनिक प्रश्न क्रं. का उत्तर	विषय विशेषज्ञों का मत	संलग्न साक्ष्य
7	2025-12-17	2	105848	The term of office of the Attorney General of India is: भारत के महान्यायवादी का कार्यकाल कितना होता है?	OptionID: 523392, Not fixed by the constitution / संविधान द्वारा निर्धारित नहीं	No change	7
8	2025-12-17	2	105919	Which port of the Sangam Age became famous for Indo-Roman trade? संगम युग का कौन-सा बंदरगाह इंडो-रोमन व्यापार के लिए प्रसिद्ध हुआ?	OptionID: 523675, Muziris / मुझिरिस	Cancelled more than one option is correct	8
9	2025-12-18	1	105603	The French Baroque style can be seen in which Indian building? फ्रेंच बारोक शैली किस भारतीय भवन में स्पष्ट रूप से देखी जा सकती है?	OptionID: 522410, Palace of Mahe, Puducherry / पैलेस ही माहे, पुडुचेरी	No change	9

4/6

(25)

मध्य प्रदेश कर्मचारी चयन मंडल
M.P. Employees Selection Board

अंतिम उत्तर कुंजी

1. परीक्षा का नाम	PRT Steno LDC-2025	6. कुल विकल्प परिवर्तित प्रश्नों की संख्या	Nil
2. विषय प्रश्न पत्र	GKINDIA (SECTION A)	7. कुल निरस्त प्रश्नों की संख्या	4
3. टैम्पर प्रूफ लिफ़ाफ़ा का क्रमांक	483139	8. कुल पृष्ठों की संख्या	6
4. इस पृष्ठ पर आपत्ति युक्त प्रश्नों की संख्या	1	9. कुल आपत्ति युक्त प्रश्नों की संख्या	~~10~~ 16
5. कुंजी समिति की बैठक दिनांक	5/1/26 & 6/1/26 & 7/1/26		

(टीप: कुल निरस्त एवं कुल विकल्प परिवर्तित प्रश्नों के इंद्राज केवल प्रथम पृष्ठ पर ही अंकित किये जावें।)

स. क्रं.	परीक्षा दिनांक	शिफ्ट क्रं.	एजेंसी द्वारा प्रदाय प्रश्न का यूनिक प्रश्न क्रं.	प्रश्न का संक्षिप्त विवरण	एजेंसी द्वारा प्रदाय प्रश्न का यूनिक प्रश्न क्रं. का उत्तर	विषय विशेषज्ञों का मत	संलग्न साक्ष्य
10	2025-12-18	1	105866	Which Finance Commission was the first to recommend Goods and Services Tax compensation to states? राज्यों को वस्तु एवं सेवा कर (जीएसटी) के लिए क्षतिपूर्ति की सिफारिश सबसे पहले किस वित्त आयोग ने की थी?	OptionID: 523462, 13th Finance Commission / 13वां वित्त आयोग	No change	10

[illegible] प्रतिलिपि साक्ष्य अनिवार्य रूप से संलग्न की जाना है।

मध्य प्रदेश कर्मचारी चयन मंडल
M.P. Employees Selection Board

अंतिम उत्तर कुंजी

1. परीक्षा का नाम	.PRT Steno LDC-2025	6. कुल विकल्प परिवर्तित प्रश्नों की संख्या	Nil
2. विषय प्रश्न पत्र	GKMP (SECTION A)	7. कुल निरस्त प्रश्नों की संख्या	4
3. टैम्पर प्रूफ लिफ़ाफ़ा का क्रमांक	483139	8. कुल पृष्ठों की संख्या	6
4. इस पृष्ठ पर आपत्ति युक्त प्रश्नों की संख्या	3	9. कुल आपत्ति युक्त प्रश्नों की संख्या	8 16
5. कुंजी समिति की बैठक दिनांक	5/1/26 & 6/1/26 & 7/1/26		

(टीप: कुल निरस्त एवं कुल विकल्प परिवर्तित प्रश्नों के इंद्राज केवल प्रथम पृष्ठ पर ही अंकित किये जावें|)

स. क्रं.	परीक्षा दिनांक	शिफ्ट क्रं.	एजेंसी द्वारा प्रदाय प्रश्न का यूनिक प्रश्न क्रं.	प्रश्न का संक्षिप्त विवरण	एजेंसी द्वारा प्रदाय प्रश्न का यूनिक प्रश्न क्रं. का उत्तर	विषय विशेषज्ञों का मत	संलग्न साक्ष्य
1	2025-12-17	1	100730	What was the approximate tenure of the Madhya Bharat Vidhan Sabha constituted in 1952? 1952 में गठित मध्य भारत विधान सभा का अनुमानित कार्यकाल कितना था?	OptionID: 502919, 4 and a half years / साढ़े चार वर्ष	No change	11
2	2025-12-17	1	100884	The Chorbaraj Medium Irrigation Project in Madhya Pradesh is on which river basin? चोरबारजी मध्यम सिंचाई परियोजना, मध्य प्रदेश किस नदी घाटी पर स्थित है?	OptionID: 503535, Mahi / माही	Cancelled Due to wrong Hindi translation	12
3	2025-12-17	1	100903	Kanhargaon Tank) Medium Irrigation Project in Madhya Pradesh is located in which basin? मध्य प्रदेश में स्थित कन्हरगांव (कान्हरगांव टैंक) मध्यम सिंचाई परियोजना किस नदी घाटी में स्थित है?	OptionID: 503610, Godavari / गोदावरी	No change	13

मध्य प्रदेश कर्मचारी चयन मंडल
M.P. Employees Selection Board

अंतिम उत्तर कुंजी

1. परीक्षा का नाम	PRT Steno LDC-2025	6. कुल विकल्प परिवर्तित प्रश्नों की संख्या	Nil
2. विषय प्रश्न पत्र	GKMP (SECTION A)	7. कुल निरस्त प्रश्नों की संख्या	4
3. टैम्पर प्रूफ लिफ़ाफ़ा का क्रमांक	483139	8. कुल पृष्ठों की संख्या	6
4. इस पृष्ठ पर आपत्ति युक्त प्रश्नों की संख्या	3	9. कुल आपत्ति युक्त प्रश्नों की संख्या	16
5. कुंजी समिति की बैठक दिनांक	5/1/26 & 6/1/26 & 7/1/26		

(टीप: कुल निरस्त एवं कुल विकल्प परिवर्तित प्रश्नों के इंद्राज केवल प्रथम पृष्ठ पर ही अंकित किये जावें)

स. क्रं.	परीक्षा दिनांक	शिफ्ट क्रं.	एजेंसी द्वारा प्रदाय प्रश्न का यूनिक प्रश्न क्रं.	प्रश्न का संक्षिप्त विवरण	एजेंसी द्वारा प्रदाय प्रश्न का यूनिक प्रश्न क्रं. का उत्तर	विषय विशेषज्ञों का मत	संलग्न साक्ष्य
4	2025-12-17	1	100910	Which river basin hosts the Kunda Nalla Medium Irrigation Project in Madhya Pradesh? कुंडा नाला मध्यम सिंचाई परियोजना, मध्य प्रदेश किस नदी घाटी में स्थित है?	OptionID: 503639, Narmada / नर्मदा	No change	14
5	2025-12-18	1	100623	What is the average elevation of the Narmada Valley above Mean Sea Level (MSL) of Madhya Pradesh ? मध्य प्रदेश के औसत समुद्र तल (एमएसएल) के ऊपर नर्मदा घाटी की औसत ऊंचाई कितनी है?	OptionID: 502491, 300 m / 300 मीटर	No change	15
6	2025-12-18	1	106214	Who are Alah and Udul in Bundelkhand, Madhya Pradesh folk traditions? मध्य प्रदेश के बुंदेलखंड की लोक परंपराओं में आल्हा और ऊदल कौन हैं?	OptionID: 524855, Warriors celebrated in songs / गीतों में सम्मानित वीर योद्धा	No change	16

टीप- अभ्यर्थियों से प्राप्त अभ्यावेदन पर विषय विशेषज्ञों द्वारा उनकी [illegible]

Temper

(28)

मध्य प्रदेश कर्मचारी चयन मंडल
M.P. Employees Selection Board

अंतिम उत्तर कुंजी

क्षा का नाम	PRT Steno LDC-2025	6. कुल विकल्प परिवर्तित प्रश्नों की संख्या	Nil
य प्रश्न पत्र	IAUNIT1 (SECTION A)	7. कुल निरस्त प्रश्नों की संख्या	06
र ग्रूफ लिफ़ाफ़ा का क्रमांक	483140	8. कुल पृष्ठों की संख्या	07
पृष्ठ पर आपत्ति युक्त प्रश्नों की संख्या	20	9. कुल आपत्ति युक्त प्रश्नों की संख्या	20
ी समिति की बैठक दिनांक	5.1.2026, 06.01.2026		

(टीप: कुल निरस्त एवं कुल विकल्प परिवर्तित प्रश्नों के इंद्राज केवल प्रथम पृष्ठ पर ही अंकित किये जावें।)

परीक्षा दिनांक	शिफ्ट क्रं.	एजेंसी द्वारा प्रदाय प्रश्न का यूनिक प्रश्न क्रं.	प्रश्न का संक्षिप्त विवरण	एजेंसी द्वारा प्रदाय प्रश्न का यूनिक प्रश्न क्रं. का उत्तर	विषय विशेषज्ञों का मत	संलग्न साक्ष्य
2025-12-17	1	109626	A can do a piece of work in 12 days. B is 60% as efficient as A. If both work together, in how many days will they complete the work? A एक कार्य को 12 दिनों में पूरा कर सकता है। B की कार्यक्षमता A से 60% अधिक है। यदि दोनों मिलकर कार्य करें, तो वे उस कार्य को कितने दिनों में पूरा करेंगे?	OptionID: 538501, 7.5 days / 7.5 दिन	Cancelled due to Hindi & English version are different (Structurely wrong)	01
2025-12-17	1	109722	Two different positions of the same dice are shown, the six faces are lettered as A, B, C, D, E and F. Select the letter that will be on the top if the dice is resting on 'B'. एक ही पासे की दो अलग-अलग स्थितियाँ दिखाई गई हैं, छह फलकों पर A, B, C, D, E और F अक्षर अंकित हैं। यदि पासा 'B' पर रखा है तो सबसे ऊपर आने वाले अक्षर का चयन करें।	OptionID: 538885, D	Cancelled due to Image is not given in question	02
2025-12-17	1	109739	Two different positions of the same dice are shown, the six faces of which are numbered 72, 83, 76, 87, 98, and 45. Select the number that will be on the face opposite to the one showing '72'. एक ही पासे (dice) की दो अलग-अलग स्थितियाँ दिखाई गई हैं, जिनकी छह सतहों पर संख्याएँ 72, 83, 76, 87, 98 और 45 लिखी हुई है। उस संख्या का चयन कीजिए जो '72' के विपरीत सतह पर होगी।	OptionID: 538954, 45	Cancelled due to Image is not given in question (Structurely wrong)	03

(29)

मध्य प्रदेश कर्मचारी चयन मंडल
M.P. Employees Selection Board

अंतिम उत्तर कुंजी

क्षा का नाम	PRT Steno LDC-2025	6. कुल विकल्प परिवर्तित प्रश्नों की संख्या	
य प्रश्न पत्र	IAUNIT1 (SECTION A)	7. कुल निरस्त प्रश्नों की संख्या	
र प्रूफ लिफ़ाफ़ा का क्रमांक	483140	8. कुल पृष्ठों की संख्या	
पृष्ठ पर आपत्ति युक्त प्रश्नों की संख्या	3	9. कुल आपत्ति युक्त प्रश्नों की संख्या	9
ी समिति की बैठक दिनांक			

(टीप: कुल निरस्त एवं कुल विकल्प परिवर्तित प्रश्नों के इंद्राज केवल प्रथम पृष्ठ पर ही अंकित किये जावें।)

परीक्षा दिनांक	शिफ्ट क्रं.	एजेंसी द्वारा प्रदाय प्रश्न का यूनिक प्रश्न क्रं.	प्रश्न का संक्षिप्त विवरण	एजेंसी द्वारा प्रदाय प्रश्न का यूनिक प्रश्न क्रं. का उत्तर	विषय विशेषज्ञों का मत	संलग्न साक्ष्य
2025-12-17	2	107496	You are responsible for a complex, multi-stage project. You meticulously plan each step, track progress diligently, and ensure all details are handled correctly, even those that seem minor. This systematic and diligent approach exemplifies: आप एक जटिल, बहु-चरणीय परियोजना के लिए जिम्मेदार हैं। आप प्रत्येक चरण की सावधानीपूर्वक योजना बनाते हैं, प्रगति को सतर्कता से ट्रैक करते हैं, और यह सुनिश्चित करते हैं कि सभी विवरण सही तरीके से संभाले जाएं — यहां तक कि वे जो मामूली लगते हैं। यह व्यवस्थित और परिश्रमी दृष्टिकोण किस गुण को दर्शाता है?	OptionID: 529983, Conscientiousness / कर्तव्यनिष्ठा	No change	04
2025-12-17	2	109563	The seminar in Chandigarh was held two days after the one in Ludhiana. Shimla's seminar was three days before the one in Ludhiana. Amritsar hosted its seminar on the same weekday as Shimla. If the seminar in Chandigarh was on 9th May (Thursday), when was the seminar in Amritsar? चंडीगढ़ में सेमिनार सुविधाता में सेमिनार के दो दिन बाद हुआ। शिमला में सेमिनार सुविधाता में सेमिनार के तीन दिन पहले हुआ। अमृतसर में सेमिनार शिमला के ही समर्थ दिवस पर हुआ। यदि चंडीगढ़ में सेमिनार 9 मई (गुरुवार) को हुआ तो अमृतसर में सेमिनार किस दिन हुआ?	OptionID: 538252, 4th May / 4 मई	No change	05
2025-12-17	2	109705	If "-" means addition, "-" means subtraction, "×" means power, and "+" means square root, then what is यदि "-" का अर्थ है जोड़ना, "-" का अर्थ है घटाना, "×" का अर्थ है घात, और "+" का अर्थ है वर्गमूल ; तो निम्नलिखित व्यंजक का मान क्या होगा: 3 × 4 − 16 ÷ 2 + 25 = ?	OptionID: 538819, 102	No change	06

[illegible]

(30)

मध्य प्रदेश कर्मचारी चयन मंडल
M.P. Employees Selection Board

अंतिम उत्तर कुंजी

क्षा का नाम	PRT Steno LDC-2025	6. कुल विकल्प परिवर्तित प्रश्नों की संख्या	
य प्रश्न पत्र	IAUNIT1 (SECTION A)	7. कुल निरस्त प्रश्नों की संख्या	
र प्रूफ लिफ़ाफ़ा का क्रमांक	483140	8. कुल पृष्ठों की संख्या	
पृष्ठ पर आपत्ति युक्त प्रश्नों की संख्या	3	9. कुल आपत्ति युक्त प्रश्नों की संख्या	9
ी समिति की बैठक दिनांक			

(टीप: कुल निरस्त एवं कुल विकल्प परिवर्तित प्रश्नों के इंद्राज केवल प्रथम पृष्ठ पर ही अंकित किये जावें।)

परीक्षा दिनांक	शिफ्ट क्रं.	एजेंसी द्वारा प्रदाय प्रश्न का यूनिक प्रश्न क्रं.	प्रश्न का संक्षिप्त विवरण	एजेंसी द्वारा प्रदाय प्रश्न का यूनिक प्रश्न क्रं. का उत्तर	विषय विशेषज्ञों का मत (Stenotypy wrong)	संलग्न साक्ष्य
2025-12-17	2	109736	A cube is formed by folding the given sheet. What would be the number on the opposite side of number '2'? एक घन दिए गए शीट को मोड़कर बनाया जाता है। संख्या '2' के विपरीत सतह पर कौन-सी संख्या होगी?	OptionID: 538942, 5	Cancelled due to image is not given in the question	07
2025-12-18	1	107422	Find the WRONG number in the given series. दी गई श्रृंखला में गलत संख्या का पता लगाइए। 5040, 720, 120, 24, 4, 2	OptionID: 529687, 4	No Change	08
2025-12-18	1	109747	by rearranging the letters of 'RESTAURANT', we can get a meaningful English word. Each letter is denoted with a different number as shown in the table below. The combination of the numbers for the word, which is NOT meaningful, is _____ 'RESTAURANT' अक्षरों को पुनः व्यवस्थित करने पर हमें एक सार्थक अंग्रेजी शब्द मिल सकता है। प्रत्येक अक्षर को नीचे दी गई तालिका में एक अलग संख्या द्वारा दर्शाया गया है। ऊपर शब्द के लिए संख्याओं का संयोजन, जो सार्थक नहीं है, _____ होगा। 1 2 3 4 5 6 7 8 9 10 R E S T A U R A N T	OptionID: 538988, 6, 10, 7, 2, 5	No Change	09

(31)

मध्य प्रदेश कर्मचारी चयन मंडल
M.P. Employees Selection Board

अंतिम उत्तर कुंजी

ीक्षा का नाम	PRT Steno LDC-2025	6. कुल विकल्प परिवर्तित प्रश्नों की संख्या	
य प्रश्न पत्र	IAUNIT2 (SECTION A)	7. कुल निरस्त प्रश्नों की संख्या	
र प्रूफ लिफ़ाफ़ा का क्रमांक	483140	8. कुल पृष्ठों की संख्या	
पृष्ठ पर आपत्ति युक्त प्रश्नों की संख्या	3	9. कुल आपत्ति युक्त प्रश्नों की संख्या	9
ी समिति की बैठक दिनांक			

(टीप: कुल निरस्त एवं कुल विकल्प परिवर्तित प्रश्नों के इंद्राज केवल प्रथम पृष्ठ पर ही अंकित किये जावें।)

परीक्षा दिनांक	शिफ्ट क्रं.	एजेंसी द्वारा प्रदाय प्रश्न का यूनिक प्रश्न क्रं.	प्रश्न का संक्षिप्त विवरण	एजेंसी द्वारा प्रदाय प्रश्न का यूनिक प्रश्न क्रं. का उत्तर	विषय विशेषज्ञों का मत	संलग्न साक्ष्य
2025-12-17	1	104981	If 26th of January 2025 is a Sunday, what day will the 15th of August 2025 be? यदि 26 जनवरी 2025 को रविवार था, तो 24 मार्च 2021 को कौन-सा दिन होगा?	OptionID: 519924, Friday / शुक्रवार	Cancelled due to Hindi & English version are differeat in question	10
2025-12-17	1	109893	[redacted]	OptionID: 539570, White / सफ़ेद	No Change	11 to 13
2025-12-17	1	109896	[redacted]	OptionID: 539582, U	Cancelled due to Correct answer 'W' is not given option (Meaning the Answer is Correct)	14

र्थियों से प्राप्त अभ्यावेदन पर विषय विशेषज्ञों द्वारा उत्तरों में परिवर्तन या निरस्त किये गये प्रश्नों पर अपना मत, प्रविष्टि साक्ष्य अनिवार्य रूप से संलग्न की जाना है।

मध्य प्रदेश कर्मचारी चयन मंडल
M.P. Employees Selection Board

अंतिम उत्तर कुंजी

क्षा का नाम	PRT Steno LDC-2025	6. कुल विकल्प परिवर्तित प्रश्नों की संख्या	
य प्रश्न पत्र	IAUNIT2 (SECTION A)	7. कुल निरस्त प्रश्नों की संख्या	
र प्रूफ लिफ़ाफ़ा का क्रमांक	483140	8. कुल पृष्ठों की संख्या	
पृष्ठ पर आपत्ति युक्त प्रश्नों की संख्या	3	9. कुल आपत्ति युक्त प्रश्नों की संख्या	9
ी समिति की बैठक दिनांक			

(टीप: कुल निरस्त एवं कुल विकल्प परिवर्तित प्रश्नों के इंद्राज केवल प्रथम पृष्ठ पर ही अंकित किये जावें।)

परीक्षा दिनांक	शिफ्ट क्रं.	एजेंसी द्वारा प्रदाय प्रश्न का यूनिक प्रश्न क्रं.	प्रश्न का संक्षिप्त विवरण	एजेंसी द्वारा प्रदाय प्रश्न का यूनिक प्रश्न क्रं. का उत्तर	विषय विशेषज्ञों का मत	संलग्न साक्ष्य
2025-12-17	2	109839	[illegible]	OptionID: 539354, Only II follows / केवल II अनुसरण करता है	No Change	15 to 16
2025-12-17	2	109853	[illegible]	OptionID: 539411, Both I and II follow / I और II दोनों अनुसरण करते हैं	No Change	17 to 18
2025-12-18	1	104934	If the seventh day of a month is three days earlier than Friday, what day will it be on the nineteenth day of the month? यदि किसी महीने का सातवाँ दिन शुक्रवार से तीन दिन पहले पड़ता है, तो महीने के उन्नीसवें दिन, कौन-सा दिन होगा?	OptionID: 519733, Sunday / रविवार	No Change	19

[illegible]

मध्य प्रदेश कर्मचारी चयन मंडल
M.P. Employees Selection Board

अंतिम उत्तर कुंजी

परीक्षा का नाम	PRT Steno LDC-2025	6. कुल विकल्प परिवर्तित प्रश्नों की संख्या	
विषय प्रश्न पत्र	IAUNIT2 (SECTION A)	7. कुल निरस्त प्रश्नों की संख्या	
प्रूफ लिफ़ाफ़ा का क्रमांक	483140	8. कुल पृष्ठों की संख्या	
प्रति पृष्ठ पर आपत्ति युक्त प्रश्नों की संख्या	3	9. कुल आपत्ति युक्त प्रश्नों की संख्या	9
विशेषज्ञ समिति की बैठक दिनांक			
(टीप: कुल निरस्त एवं कुल विकल्प परिवर्तित प्रश्नों के इंद्राज केवल प्रथम पृष्ठ पर ही अंकित किये जावें)			

परीक्षा दिनांक	शिफ्ट क्रं.	एजेंसी द्वारा प्रदाय प्रश्न का यूनिक प्रश्न क्रं.	प्रश्न का संक्षिप्त विवरण	एजेंसी द्वारा प्रदाय प्रश्न का यूनिक प्रश्न क्रं. का उत्तर	विषय विशेषज्ञों का मत	संलग्न साक्ष्य
2025-12-18	1	105042	What day of the week was 1 Jan 1901, if 1 Jan 1900 was Monday? यदि 1 जनवरी 1900 सोमवार था, तो 1 जनवरी 1901 कौन-सा वार था?	OptionID: 520167, Tuesday / मंगलवार	No Change	20
2025-12-18	1	107621	**Sentence:** "The quantum universe expands silently into infinity." If the 3rd letter of every 2nd word is written in order, what word is formed? **वाक्य:** "The quantum universe expands silently into infinity." यदि प्रत्येक दूसरे शब्द के तीसरे अक्षर को क्रम से लिखा जाए, तो कौन-सा शब्द बनेगा?	OptionID: 530484, apt	No Change	21 to 22
2025-12-18	1	107639	Which approach is best when faced with conflicting information? विरोधाभासी जानकारी का सामना करते समय कौन-सा दृष्टिकोण सबसे अच्छा है?	OptionID: 530555,	No Change	23 to 24

अभ्यर्थियों से प्राप्त अभ्यावेदन पर विषय विशेषज्ञों द्वारा उत्तरों में परिवर्तन या निरस्त किये गये प्रश्नों पर अपना मत, प्रविष्टि साक्ष्य अनिवार्य रूप से संलग्न की जाना है।

(34)

मध्य प्रदेश कर्मचारी चयन मंडल
M.P. Employees Selection Board

अंतिम उत्तर कुंजी

...क्षा का नाम	PRT Steno LDC-2025	6. कुल विकल्प परिवर्तित प्रश्नों की संख्या	
...य प्रश्न पत्र	IAUNIT3 (SECTION A)	7. कुल निरस्त प्रश्नों की संख्या	
...र प्रूफ लिफ़ाफ़ा का क्रमांक	483140	8. कुल पृष्ठों की संख्या	
...पृष्ठ पर आपत्ति युक्त प्रश्नों की संख्या	2	9. कुल आपत्ति युक्त प्रश्नों की संख्या	2
...ी समिति की बैठक दिनांक			

(टीप: कुल निरस्त एवं कुल विकल्प परिवर्तित प्रश्नों के इंद्राज केवल प्रथम पृष्ठ पर ही अंकित किये जावें।)

...परीक्षा दिनांक	शिफ्ट क्रं.	एजेंसी द्वारा प्रदाय प्रश्न का यूनिक प्रश्न क्रं.	प्रश्न का संक्षिप्त विवरण	एजेंसी द्वारा प्रदाय प्रश्न का यूनिक प्रश्न क्रं. का उत्तर	विषय विशेषज्ञों का मत	संलग्न साक्ष्य
2025-12-17	2	105184	In English Language, Rearrange the following parts to form a meaningful sentence: अंग्रेजी भाषा में, सभी हिस्सों को एक सार्थक वाक्य में व्यवस्थित कीजिए: (A) were signed (B) the documents (C) by the director (D) in the meeting	OptionID: 520736, B – A – C – D	No Change	25
2025-12-18	1	105213	Read the Scenario and give appropriate answer: You're part of a space mission team. A crewmate shows signs of psychological distress, but reporting it could delay the mission and affect funding. They insist they're fine. What should you do? परिदृश्य पढ़े और उचित उत्तर दें: आप एक अंतरिक्ष मिशन टीम का हिस्सा हैं। एक सहकर्मी स्वाभाविक तनाव के लक्षण दिखा रहा है, [illegible] मिशन में देरी हो सकती है और संदिग्ध पर भारी पड़ सकता है। वह बार-बार कहता है कि वह ठीक है। तुम्हें क्या करना चाहिए?	OptionID: 520850, [illegible]	No Change	26

...भ्यर्थियों से प्राप्त अभ्यावेदन पर विषय विशेषज्ञों द्वारा उत्तरों में परिवर्तन या निरस्त किये गये प्रश्नों पर अपना मत, प्रविष्टि साक्ष्य अनिवार्य रूप से संलग्न की जाना है।

मध्य प्रदेश कर्मचारी चयन मंडल
M.P. Employees Selection Board

अंतिम उत्तर कुंजी

1. परीक्षा का नाम	PRT Steno LDC-2025	6. कुल विकल्प परिवर्तित प्रश्नों की संख्या	-Nil-
2. विषय प्रश्न पत्र	MATHUNIT1 (SECTION A)	7. कुल निरस्त प्रश्नों की संख्या	02
3. टैम्पर प्रूफ लिफ़ाफ़ा का क्रमांक	483142	8. कुल पृष्ठों की संख्या	04
4. इस पृष्ठ पर आपत्ति युक्त प्रश्नों की संख्या	3 11	9. कुल आपत्ति युक्त प्रश्नों की संख्या	5 (11)
5. कुंजी समिति की बैठक दिनांक			

(टीप: कुल निरस्त एवं कुल विकल्प परिवर्तित प्रश्नों के इंद्राज केवल प्रथम पृष्ठ पर ही अंकित किये जावें|)

स. क्रं.	परीक्षा दिनांक	शिफ्ट क्रं.	एजेंसी द्वारा प्रदाय प्रश्न का यूनिक प्रश्न क्रं.	प्रश्न का संक्षिप्त विवरण	एजेंसी द्वारा प्रदाय प्रश्न का यूनिक प्रश्न क्रं. का उत्तर	विषय विशेषज्ञों का मत	संलग्न साक्ष्य
1	2025-12-17	2	102502	The height of a right circular cylinder is 14 cm and the radius of its base is 3.5 cm. What is the total surface area of the cylinder? एक समवृत्त बेलन की ऊँचाई 14 सेमी है और इसके आधार की त्रिज्या 3.5 सेमी है। उस बेलन का कुल पृष्ठीय क्षेत्रफल कितना होगा?	OptionID: 510007, 385 cm^2 / 385 सेमी²	No change	1
2	2025-12-17	2	102555	Which of the following statements is/are true? I. The angle subtended by a diameter of a circle at the circumference is always a right angle. II. If two equal chords of a circle are equidistant from the centre, then the radius must be perpendicular to these chords. निम्नलिखित में से कौन-सा/से कथन सत्य है/हैं? I. किसी वृत्त की व्यास द्वारा परिधि पर बनाया गया कोण सदैव समकोण होता है। II. यदि वृत्त की दो समान जीवाएँ केंद्र से समान दूरी पर हों, तो त्रिज्या उन जीवाओं पर लंबवत होगी।	OptionID: 510219, Both I and II / दोनों I और II	No change	2
3	2025-12-18	1	102503	A cylinder has a volume of 4620 cm^3 and height 10 cm. Find the radius of the base. एक बेलन का आयतन 4620 सेमी³ है और उसकी ऊँचाई 10 सेमी है। उसके आधार की त्रिज्या कितनी होगी?	OptionID: 510009, 12 cm / 12 सेमी	Cancelled No option is correct	3

मध्य प्रदेश कर्मचारी चयन मंडल
M.P. Employees Selection Board

अंतिम उत्तर कुंजी

क्षा का नाम	PRT Steno LDC-2025	6. कुल विकल्प परिवर्तित प्रश्नों की संख्या	
य प्रश्न पत्र	MATHUNIT1 (SECTION A)	7. कुल निरस्त प्रश्नों की संख्या	
र प्रूफ लिफ़ाफ़ा का क्रमांक		8. कुल पृष्ठों की संख्या	
पृष्ठ पर आपत्ति युक्त प्रश्नों की संख्या	22 11	9. कुल आपत्ति युक्त प्रश्नों की संख्या	5
ी समिति की बैठक दिनांक			

(टीप: कुल निरस्त एवं कुल विकल्प परिवर्तित प्रश्नों के इंद्राज केवल प्रथम पृष्ठ पर ही अंकित किये जावें)

परीक्षा दिनांक	शिफ्ट क्रं.	एजेंसी द्वारा प्रदाय प्रश्न का यूनिक प्रश्न क्रं.	प्रश्न का संक्षिप्त विवरण	एजेंसी द्वारा प्रदाय प्रश्न का यूनिक प्रश्न क्रं. का उत्तर	विषय विशेषज्ञों का मत	संलग्न साक्ष्य
2025-12-18	1	102556	Which of the following statements (s) is/are CORRECT? (i) Two lengths drawn from an external point to a circle are equal in length. (ii) If the radius of a circle is 7.5 cm and the tangent length from an external point is 12 cm, then the distance between the external point and the centre is 20 cm. निम्नलिखित में से कौन-सा/से-सी कथन सही है/हैं? (i) किसी वृत्त पर एक बाह्य बिंदु से खींची गई दो स्पर्शरेखाएँ समान लंबाई की होती हैं। (ii) यदि किसी वृत्त की त्रिज्या 7.5 सेमी है और बाह्य बिंदु से खींची गई स्पर्शरेखा की लंबाई 12 सेमी है, तो उस बाह्य बिंदु से वृत्त के केंद्र तक की दूरी 20 सेमी होगी।	OptionID: 510221, Only I / केवल I	No change	4
2025-12-18	1	102594	A road roller is a hollow right circular cylinder, open at both ends, with an external radius of 3.5 m, and internal radius of 3 m, and a length of 2.1 m. How many revolutions must it make to level a playground measuring 147 m × 50 m? (take an approximate value) एक सड़क रोलर एक खोखला समकृत्त बेलन है और दोनों सिरों से खुला है, जिसकी बाहरी त्रिज्या 3.5 मीटर, आंतरिक त्रिज्या 3 मीटर और लंबाई 2.1 मीटर है। यदि इसे 147 मीटर × 50 मीटर के मैदान को समतल करना है, तो इसे कितनी बार घूमना पड़ेगा? (एक अनुमानित मान लें)	OptionID: 510375, 160	No change	5

अभ्यर्थियों से प्राप्त अभ्यावेदन पर विषय विशेषज्ञों द्वारा उत्तरों में परिवर्तन का निराकरण किये जाने के

मध्य प्रदेश कर्मचारी चयन मंडल
M.P. Employees Selection Board

अंतिम उत्तर कुंजी

...ा का नाम	PRT Steno LDC-2025	6. कुल विकल्प परिवर्तित प्रश्नों की संख्या	
...ा प्रश्न पत्र	MATHUNIT2 (SECTION A)	7. कुल निरस्त प्रश्नों की संख्या	
...र प्रूफ लिफ़ाफ़ा का क्रमांक		8. कुल पृष्ठों की संख्या	
...पृष्ठ पर आपत्ति युक्त प्रश्नों की संख्या	11	9. कुल आपत्ति युक्त प्रश्नों की संख्या	3
...ा समिति की बैठक दिनांक			

(टीप: कुल निरस्त एवं कुल विकल्प परिवर्तित प्रश्नों के इंद्राज केवल प्रथम पृष्ठ पर ही अंकित किये जावें।)

...रीक्षा दिनांक	शिफ्ट क्रं.	एजेंसी द्वारा प्रदाय प्रश्न का यूनिक प्रश्न क्रं.	प्रश्न का संक्षिप्त विवरण	एजेंसी द्वारा प्रदाय प्रश्न का यूनिक प्रश्न क्रं. का उत्तर	विषय विशेषज्ञों का मत	संलग्न साक्ष्य
2025-12-17	1	102909	If an article is marked at Rs 1500 and sold for Rs 1200, find the discount percentage. एक वस्तु का अंकित मूल्य 1500 रुपए है और उसे 1200 रुपए में बेचा गया। छूट प्रतिशत कितना है?	OptionID: 511636, 0.2	No change	6
2025-12-18	1	102822	In a partnership, P invests Rs 50,000 for 4 months, Q invests Rs 40,000 for 6 months, and R invests Rs 60,000 for 3 months. If the total profit is Rs 33,000, what is R's approximate share? एक साझेदारी में, P ने 50,000 रुपए 4 महीने के लिए निवेश किए, Q ने 40,000 रुपए 6 महीने के लिए निवेश किए, और R ने 60,000 रुपए 3 महीने के लिए निवेश किए। यदि कुल लाभ 33,000 रुपए है, तो R का लगभग हिस्सा कितना होगा?	OptionID: 511285, Rs 9,581	No change	7
2025-12-18	1	103199	A ladder leaning against a wall makes an angle of 60° with the ground. If the foot is 4 m from the wall, how high does it touch the wall? दीवार के सहारे टिकी एक सीढ़ी, ज़मीन से 60° का कोण बनाती है। यदि पैर, दीवार से 4 मीटर की दूरी पर है, तो वह दीवार को कितनी ऊँचाई तक छूता है?	OptionID: 512796, 4√3 m	No change	8

...यर्थियों से प्राप्त अभ्यावेदन पर विषय विशेषज्ञों द्वारा उत्तरों में परिवर्तन या निरस्त किये गये प्रश्नों पर अपना मत, प्रतिष्ठित साक्ष्य अनिवार्य रूप से संलग्न की जाना है।

मध्य प्रदेश कर्मचारी चयन मंडल
M.P. Employees Selection Board

अंतिम उत्तर कुंजी

1. परीक्षा का नाम	PRT Steno LDC-2025	6. कुल विकल्प परिवर्तित प्रश्नों की संख्या	
2. विषय प्रश्न पत्र	MATHUNIT3 (SECTION A)	7. कुल निरस्त प्रश्नों की संख्या	
3. टैम्पर प्रूफ लिफ़ाफ़ा का क्रमांक		8. कुल पृष्ठों की संख्या	
4. इस पृष्ठ पर आपत्ति युक्त प्रश्नों की संख्या	11	9. कुल आपत्ति युक्त प्रश्नों की संख्या	3
5. कुंजी समिति की बैठक दिनांक			

(टीप: कुल निरस्त एवं कुल विकल्प परिवर्तित प्रश्नों के इंद्राज केवल प्रथम पृष्ठ पर ही अंकित किये जावें)

स. क्रं.	परीक्षा दिनांक	शिफ्ट क्रं.	एजेंसी द्वारा प्रदाय प्रश्न का यूनिक प्रश्न क्रं.	प्रश्न का संक्षिप्त विवरण	एजेंसी द्वारा प्रदाय प्रश्न का यूनिक प्रश्न क्रं. का उत्तर	विषय विशेषज्ञों का मत	संलग्न साक्ष्य
1	2025-12-17	2	103401	The test scores of five students in a village school are recorded as follows: 70, 75, 80, 85, and 90. Using the sample standard deviation formula, what is the standard deviation of the scores? एक गाँव के स्कूल में पाँच छात्रों के परीक्षा अंक इस प्रकार दर्ज किए गए: 70, 75, 80, 85, और 90। नमूना मानक विचलन के सूत्र का उपयोग करते हुए, अंकों का मानक विचलन क्या होगा?	OptionID: 513604, 7.91	No change	9
2	2025-12-18	1	107212	"In a triangular roof ABC, AD is the median to base BC.If triangles ABD and ADC are congruent, what does this imply about ABC?" "एक त्रिभुजाकार छत ABC में, AD आधार BC की माध्यिका है। यदि त्रिभुज ABD और ADC सर्वांगसम हैं, तो ABC के बारे में इसका क्या तात्पर्य है?"	OptionID: 528845, Isosceles with AB=AC / AB=AC के साथ समद्विबाहु	No change	10
3	2025-12-18	1	107305	A fisherman rows his boat 50 km downstream in 5 hours. What is the speed of the boat? एक मछुआरा अपनी नाव को धारा के साथ 50 किलोमीटर की दूरी 5 घंटे में तय करता है। नाव की चाल क्या है?	OptionID: 529220, 10 km/h / 10 किमी/घंटा	Cancelled (Not Structured Properly)	11

टीप: अभ्यर्थियों से प्राप्त अभ्यावेदन पर विषय विशेषज्ञों द्वारा उत्तरों में परिवर्तन या निरस्त किये गये प्रश्नों पर अपना मत, पहिचि साक्ष्य अनिवार्य रूप से संलग्न की जाना है।